Задания с 6 по 8 мая

Предмет, учитель	Дата	Рекомендуемый материал для работы
Алгебра **Учитель** Мамадалеев И.Н Выполненные задания высылайте на электронную почту по адресу: **mamadaleev73@mail.ru**	6.05	§ 36. Вопросы и задания на стр. 233 Вводные упражнения № 1,2 на стр. 233 № 641(2,4),642(2,4,6),643,644(2,4) https://www.youtube.com/watch?v=VCBNOX-HAC8
	8.05	§ 36. Вопросы и задания на стр. 233. Вводные упражнения № 3,4 на стр.234. № 645(2,4),646(2,4),647(2),648(1), 649(2) Интернет ресурсы : https://www.youtube.com/watch?v=8jl_foTAAUw
Геометрия **Учитель** Мамадалеев И.Н Выполненные задания высылайте на электронную почту по адресу: **mamadaleev73@mail.ru**	7.05	Анализ контрольной работы. Повторить п.30-38. Тест. **Смотри приложение №** 1

География

учебник А.И. Алексеев, В.В. Николина, Е.К. Липкна и д.р.,

линия «Полярная звезда», изд. «Просвещение»

7 класс

Дата	Тема урока	Домашнее задание
6.05	Европа в мире	Читать п. 47 ВЫПОЛНИТЬ: 1) письменно в тетради, характеристика страны по плану (Германия), план в учебнике стр.254

Учитель: Позднякова Ирина Анатольевна

Контакты для связи: телефон: +856-2059-708-128
irina_pozdnyakova1672@mail.ru

предмет , учитель	дата	Учебный материал, домашнее задание
История России Учитель: Качурина Людмила Павловна, эл. почта: lyuka62@yandex.ru	07.05 четверг	**Урок 1** 1. Прочитайте п. 23 «Вхождение Украины в состав России» и документ на с. 73-74 2. Работа в документе Word: а) Запишите тему урока; б) Выпишите дату вхождения Украины в состав России. в) Ответьте письменно на вопрос: Какие права были пожалованы Алексеем Михайловичем казакам Войска Запорожского? (Укажите не менее 5 прав) 3. Работу в документе Word перешлите до конца недели на мою эл.почту - lyuka62@yandex.ru
	08.05 пятница	**Урок 2.** 1. Прочитайте п. 24 «Русская православная церковь в XVII в. Реформа патриарха Никона» 2. Работа в документе Word: а) Запишите тему урока; б) Ответьте письменно на вопросы: - Перечислите патриархов на Руси в XVII веке - вопросы 1,3 к параграфу 3. Работу в документе Word перешлите до конца недели на мою эл.почту - lyuka62@yandex.ru
Русский язык Учитель: Коженкова Ирина Анатольевна Выполненные письменные задания присылать на электронную почту kozhenkowa.irina@yandex.ru	06.05	1. Изучить параграф 68 (заполнить в тетради таблицу: значение частиц/частицы). 2.Смотреть видеоурок, выполнить тренировочные задания к уроку https://resh.edu.ru/subject/lesson/2258/main/ 3.Сделать упр. № 411,416 (устно),417.
	08.05	1. Изучить параграф 69, 3 правила на стр.170-171. 2.Смотреть видеоурок, выполнить тренировочные задания к уроку https://resh.edu.ru/subject/lesson/2257/start/ 3.Сделать упр. № 421,422,425.
Литература Учитель: Коженкова Ирина Анатольевна Выполненные письменные задания присылать на электронную почту kozhenkowa.irina@yandex.ru	07.05	1.Прочитать статью о Д.С.Лихачеве стр.203-204. 2.Прочитать главы из книги Д.С.Лихачева "Земля родная" стр.204-209. 3.Письменно составить план статьи "Учиться говорить и писать" (не менее 10 пунктов).

Приложение № 1

Тест по теме

«Сумма углов треугольника. Соотношения между сторонами и углами треугольника»

2 **вариант**.

Ответами к заданиям № 1-3,5,7 являются цифра, число или последовательность цифр. Если ответом является последовательность цифр, то записывайте её без пробелов и запятых и других дополнительных символов.

1. В треугольнике два его угла равны 48° и 126 °. Найдите величину третьего угла треугольника?

1) 16°

2)4°

3) 6°

2. В треугольнике АВС ∟А=48°, ∟В=57°. Какая из сторон треугольника наибольшая ?

1) ВС

2) СА

3) ВА

4) АС или АВ

3.Какие из следующих утверждений верны?

1) Против меньшей стороны лежит больший угол .

2) Против большего угла лежит большая сторона.

3) Против меньшего угла лежит большая сторона .

4) Против большей стороны лежит больший угол.

5) В прямоугольном треугольнике гипотеза больше любого катета.

В ответ запишите номера выбранных утверждений.

Ответ:

4. Известны два угла треугольника ABC . Найдите его третий угол, укажите вид треугольника и заполните пропуски :

№	∟A	∟B	∟C	Вид треугольника
1	70°	25°		остроугольный
2	95°	80°		
3		20°	60°	
4	60°		30°	
5	45°	45°		
6		60°	60°	

5. По рис 1,2,3 ,4 найти все углы треугольника ABC:

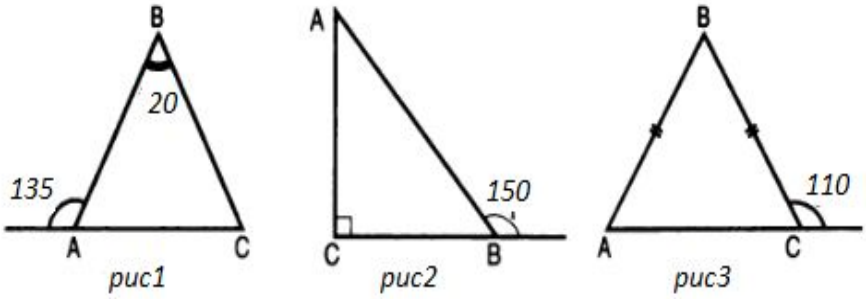

А)70°,70°,40° Б) 60°,30°,90° В)45°,115°,20°.

1)рис 3 2) рис 1 3)рис 2

А	Б	В

6. Укажите гипотенузу и катеты прямоугольных треугольников:
1) Треугольника ABC с прямым углом B ;
2)Треугольника DFP с прямым углом F ;
3) Треугольника KLM с прямым углом L.

	Гипотенуза	Катеты
1		
2		
3		

7. В треугольнике АВС АВ=7 см, ВС= 12 см. Может ли сторона АС = 6 см?

1) нет

2) да

3) невозможно определить.

8. Найдите углы равнобедренного треугольника, если угол при основании в 2 раза больше угла при вершине.

9. Внутренние углы треугольника относятся как 2 : 5 : 8. Чему равен наименьший из его углов (ответ дайте в градусах).

10. Внешний угол треугольника равен 130°, а внутренние углы, не смежные с ним, относятся как 2:3. Найдите разность наибольшего и наименьшего углов треугольника.

Инструкция к выполнению заданий.

Ответами к заданиям №1-3,5,7 являются цифра, число или последовательность цифр.

Предмет	Дата	Рекомендованный материал для работы
Физика Учитель: Осышный Павел Петрович эл. почта: shkolalao@gmail.com	06.05	Тема: Повторение. Подготовка к контрольной работе. Повторить §55-67. Выполнить тренировочную работу. Приложение 1. Выполненные задания выслать на электронную почту 06.05
	08.05	Тема: Контрольная работа. Выполните контрольную работу. Приложение 2. Выполненные задания выслать на электронную почту 08.05 -10.05

Приложение 1.

ЧАСТЬ А *Выберите один верный ответ.*

1. В каком из перечисленных случаев работу совершает сила трения?
   1) человек держит в руках сумку
   2) спортсмен поднимает штангу
   3) автомобиль тормозит у светофора
   4) человек передвигает стул по горизонтальной поверхности пола

2. К какой точке рычага нужно приложить силу в 20 Н, чтобы рычаг оказался в равновесии под действием приложенной силы?
   1) к точке А
   2) к точке Б
   3) к точке В
   4) к точке Г

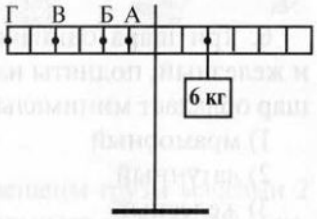

3. Система блоков с подвешенными грузами находится в равновесии. Масса второго груза равна
   1) 2 кг
   2) 3 кг
   3) 6 кг
   4) 12 кг

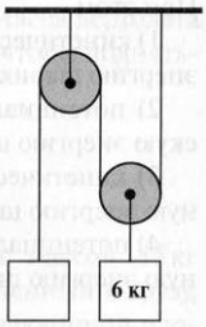

4. С помощью рычага получен выигрыш в силе равный 5. Из этого следует, что
   1) получен выигрыш в работе равный 5
   2) получен проигрыш в работе равный 5
   3) получен проигрыш в работе равный 2,5
   4) выигрыша и проигрыша в работе нет

5. КПД механизма равен 80 %. Это значит, что

1) механизм дает выигрыш в силе в 80 раз

2) из каждых затраченных 100 Дж на совершение полезной работы расходуется 80 Дж

3) из каждых затраченных 100 Дж на совершение полезной работы расходуется 20 Дж

4) механизм дает выигрыш в силе в 80 случаях из 100

6. Три шара одинаковых размеров, мраморный, латунный и железный, подняты на одинаковую высоту над столом. Какой шар обладает минимальной потенциальной энергией?

1) мраморный

2) латунный

3) железный

4) энергия всех шаров одинакова

7. Шар вылетает горизонтально из пружинного пистолета. При этом

1) кинетическая энергия пружины переходит в кинетическую энергию шарика

2) потенциальная энергия пружины переходит в кинетическую энергию шарика

3) кинетическая энергия пружины переходит в потенциальную энергию шарика

4) потенциальная энергия пружины переходит в потенциальную энергию шарика

ЧАСТЬ В

8. Рассмотрите рисунок и ответьте на вопросы.

Садовые тачки предназначены для работы на приусадебном участке. С помощью тачек удобно перевозить тяжелые грузы, увозить с участка мусор.

8А. Какой простой механизм лежит в основе конструкции садовой тачки?

8Б. В чем преимущество (выигрыш) использования простого механизма в конструкции садовой тачки? Ответ поясните.

Решите задачи.

9. К концам невесомого рычага подвешены грузы массами 2 и 12 кг. Расстояние от точки опоры до большего груза равно 2 см. Определите длину плеча меньшей силы, если рычаг находится в равновесии.

10. Мощность двигателя вертолета 125 кВт. Масса вертолета 2000 кг. Сколько времени потребуется вертолету, чтобы подняться на высоту 250 м?

ЧАСТЬ С

Решите задачу.

11. При равномерном перемещении груза массой 15 кг по наклонной плоскости динамометр, прикрепленный к грузу, показывал силу, равную 40 Н. Вычислить КПД наклонной плоскости, если длина ее 1,8 м, а высота 30 см.

Приложение 2.

ЧАСТЬ В *Выберите один верный ответ.*

1. В каком из перечисленных случаев работу совершает сила тяжести?

1) вода давит на стенку сосуда
2) колонна поддерживает свод здания
3) яблоко, выпущенное из рук, падает на землю
4) человек передвигает стул по горизонтальной поверхности пола

2. К какой точке рычага нужно прикрепить груз массой 8 кг, чтобы рычаг оказался в равновесии под действием приложенной силы?

1) к точке А
2) к точке Б
3) к точке В
4) к точке Г

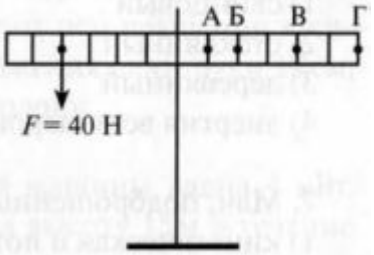

3. Система блоков с подвешенными грузами находится в равновесии. Масса второго груза равна

1) 2 кг
2) 3 кг
3) 6 кг
4) 12 кг

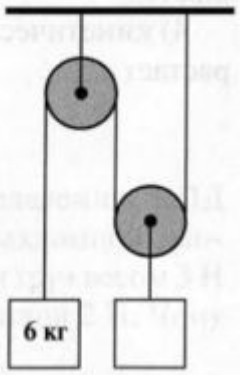

4. Неподвижный блок не дает выигрыша в силе. В работе при отсутствии силы трения этот блок

1) дает выигрыш в 2 раза
2) дает выигрыш в 4 раза
3) не дает ни выигрыша, ни проигрыша
4) дает проигрыш в 2 раза

5. КПД простого механизма всегда меньше 100 % потому, что

1) выполняется «золотое» правило механики
2) простые механизмы не дают выигрыша в работе
3) всегда присутствует трение
4) выигрыш в силе приводит к проигрышу в пути

6. Три шара одинаковых размеров, свинцовый, стеклянный и деревянный, подняты на одинаковую высоту над столом. Какой шар обладает максимальной потенциальной энергией?

1) свинцовый
2) стеклянный
3) деревянный
4) энергия всех шаров одинакова

7. Мяч, подброшенный с земли, движется вверх. При этом

1) кинетическая и потенциальная энергия возрастают
2) кинетическая и потенциальная энергия уменьшаются
3) кинетическая энергия возрастает, потенциальная – уменьшается
4) кинетическая энергия уменьшается, потенциальная – возрастает

ЧАСТЬ В

8. Рассмотрите рисунок и ответьте на вопросы.

Кусачки – инструмент для разрезания проводов и проволоки.

8А. Какой простой механизм лежит в основе конструкции кусачек?

8Б. В чем преимущество (выигрыш) использования простого механизма в конструкции кусачек? Ответ поясните.

Решите задачи.

9. При помощи кусачек перекусывают проволоку. Рука сжимает кусачки с силой 90 Н. Расстояние от оси вращения кусачек до проволоки 3 см, а до точки приложения силы руки 18 см. Определите силу, действующую на проволоку.

10. Мощность двигателя подъемной машины равна 4 кВт. Груз какой массы она может поднять на высоту 15 м в течение 2 минут?

ЧАСТЬ С

Решите задачу.

11. Выполняя лабораторную работу по определению КПД наклонной плоскости, ученик измерил длину наклонной плоскости – 90 см и ее высоту – 30 см. После этого он груз весом 3 Н переместил по наклонной плоскости, действуя силой 2 Н. Чему равен КПД наклонной плоскости?

Предмет	Дата	Рекомендованный материал для работы
Информатика Учитель: Осышный Павел Петрович эл. почта: shkolalao@gmail.com	07.05	Тема: Компьютерные презентации. Прочитать §5.2. Ответить устно на вопросы к §5.1. Работая с программой http://lbz.ru/metodist/authors/informatika/3/flash/7kl/gl5/2.php изучите презентацию, выполните все задания на слайдах. Выполните задания. Выполняя задания сделайте фотографию или скриншот (printscreen/imprecran) (Это интересно, после выполнения заданий 2). Пройдите тест сделайте фотографию или скриншот (printscreen/imprecran) результата тестирования. Выполненные задания выслать на электронную почту 07.05 -08.05
Английский язык Учитель: Сидорова Ольга Александровна эл. почта: ***guard_39@mail.ru***	06.05	Учебник: упр. 4 стр.81 Рабочая тетрадь стр.50
	07.05	Учебник: упр. 3 стр.82 Рабочая тетрадь стр.51
	08.05	Учебник: стр.84 Рабочая тетрадь стр.52 Выполненные задания выслать на электронную почту 08.05

Задания с 6 по 8 мая

7 класс

Предмет	Дата	Рекомендованный материал для работы
Биология Учитель: Смоликова Татьяна Владимировна, эл. почта tanya-smolikova@yandex.ru	Четверг 07.05	Тема: Многообразие зверей. Домашние млекопитающие Учебник §56,57. Выполнить письменно задания Приложение 1. Выполненные задания выслать на электронную почту 07.05 -08.05.

Приложение 1. Биология.

4. Пользуясь материалом параграфа, заполните таблицу **«Особенности строения и жизнедеятельности млекопитающих»**.

Сравниваемый признак	Первозвери	Настоящие звери	
		Низшие млекопитающие	Высшие млекопитающие
Число видов			
Покровы тела			
Млечные железы			
Зубная система			
Температура тела			
Особенности размножения			
Особенности развития			

Тестовый контроль № 4

Задание 1. Выберите один верный ответ из четырёх возможных вариантов и впишите его в матрицу ответов.

1. Только для животных характерен процесс

а) образования на свету органических веществ из неорганических

б) восприятия раздражений из окружающей среды и преобразования их в нервные импульсы

в) поступления веществ в организм, их преобразования и удаления конечных продуктов жизнедеятельности

г) поглощения кислорода и выделения углекислого газа в процессе дыхания

2. Приспособлением к расселению и перенесению неблагоприятных условий у многих простейших служит способность

а) образовывать цисту

б) активно передвигаться

в) размножаться делением

г) восстанавливать утраченные части тела

3. **Животное, которое является переносчиком возбудителя энцефалита, —**

а) бычий цепень
б) таёжный клещ
в) чесоточный зудень
г) печёночный сосальщик

4. **Признак, который характеризует земноводных как наземных животных, —**

а) наружное оплодотворение
б) веки, защищающие глаза
в) плавательные перепонки на пальцах стопы
г) размножение и развитие в воде

5. **Позвоночные, имеющие сухую кожу с роговыми чешуйками и сердце с неполной перегородкой в желудочке, относят к классу**

а) Костные рыбы
б) Хрящевые рыбы
в) Земноводные
г) Пресмыкающиеся

6. **Рыба с помощью боковой линии воспринимает**

а) запах предметов
б) окраску предметов
в) направление и силу течения воды
г) звуковые сигналы

7. **Наружный скелет членистоногих представлен**

а) кожно-мускульным мешком
б) хитиновой кутикулой
в) известковой раковиной
г) поперечно-полосатой мускулатурой

8. **С помощью потовых желёз регулируют температуру тела**

а) Земноводные
б) Пресмыкающиеся
в) Птицы
г) Млекопитающие

9. **Позвоночных, у которых в коже имеются потовые и сальные железы, относят к классу**

а) Земноводные
б) Пресмыкающиеся
в) Млекопитающие
г) Костные рыбы

10. **У птиц и млекопитающих ко всем органам, кроме лёгких, поступает кровь**

а) артериальная
б) венозная
в) смешанная
г) насыщенная углекислым газом